第○講座　2004年テーマ別時事問題〈経済・国際〉

1 〈財政〉 次の文を読んで，あとの問いに答えなさい。

2004年３月，2004年度のA政府予算が参議院本会議で与党の賛成多数で可決され，成立した。景気の低迷からB税収はのびなやみ，C新規国債の発行額は36兆5900億円に達した。年金・医療などの社会保障関係費は増額されたが，全体には歳出が抑制された緊縮型予算で，さまざまな国民負担増が盛り込まれたため，D家計には重い負担がのしかかることになった。また，８月以降の原油価格の高騰にともなって，ガソリンの価格やE航空運賃が値上げされるなど，消費者への打撃も心配されている。

一方，メガバンクとよばれる大手銀行の中には，F政府機関による不良債権処理をめぐる調査を受けた結果，巨額の赤字となるところもあらわれた。このような大手銀行のグループは経営統合につき進んでいる。

(1) 下線部Aに関して，次の①，②の問いに答えなさい。

① 政府予算案の作成の中心となる省はどこですか。省名を書きなさい。 ……

② 予算の議決については，衆議院の優越が認められている。次のア～エのうち，衆議院の優越が認められていないものはどれか。１つ選び，記号を書きなさい。 ……

ア 憲法改正の発議　　イ 条約の承認

ウ 内閣総理大臣の指名　　エ 法律の制定

(2) 下線部Bに関して，国税のうち，企業が納める直接税を何といいますか。 ……

(3) 下線部Cに関して，右のグラフは，国の歳出の内訳の推移と国債の発行残高を示しています。グラフを参考にして，国の財政がかかえている問題点を簡単に書きなさい。

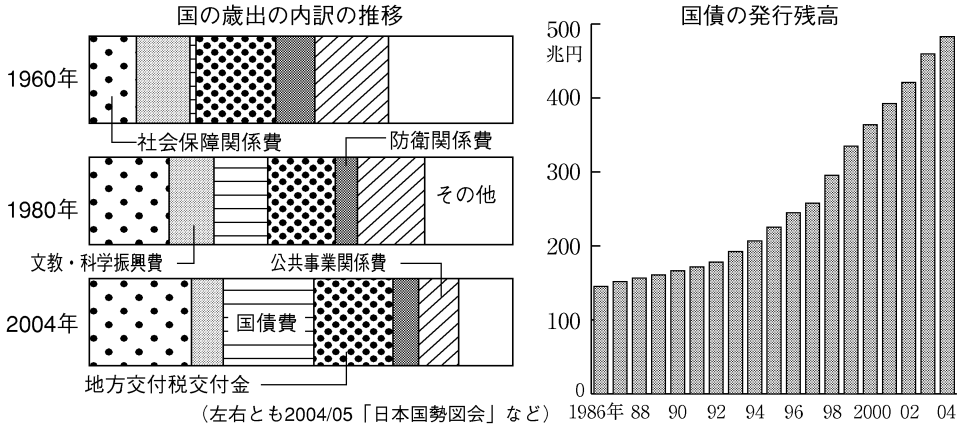

（左右とも2004/05「日本国勢図会」など）

……

……

(4) 下線部Dのうち消費支出にあてはまるものを，次から１つ選び，記号を書きなさい。 ……

ア 生命保険料を支払う。　　イ 銀行に預金する。

ウ 社会保険料を支払う。　　エ 病院で治療費を支払う。

(5) 下線部Eや鉄道・バス運賃，電気・ガス・水道料金などは，届け出や決定・認可といった形で，国や地方公共団体が関与しています。このような価格を何といいますか。 ……

(6) 下線部Fを行った政府機関を，次から１つ選び，記号を書きなさい。 ……

ア 公正取引委員会　　イ 金融庁　　ウ 国税庁　　エ 会計検査院

2 **〈社会保障制度〉** 次の文を読んで，あとの問いに答えなさい。

> 2004年の４～５月に，与野党の政治家や閣僚，著名人の年金未加入や保険料未納が次々に発覚した。年金制度は，医療保険制度とともにA社会保険の中心となる制度であり，B社会保障制度の柱である。国民のC健康で文化的な最低限度の生活を営む権利を保障するうえで，重大な責任を負っている政治家自らが未納・未加入であったことは，D世論から大きな批判を受けた。さらに，年金制度改革関連法が成立した直後に政府が，最新の＊合計特殊出生率を1.29と発表したことも非難を浴びた。なぜなら，それは少子化のいっそうの進行を意味し，E将来の負担についての前提がくずれるからである。
>
> 一方，ノンステップバスの運行や点字ブロックの設置など，F障害者や高齢者が社会の中で安全・快適に暮らせるよう，さまざまな障壁を取り除いていこうという考え方は着実に広まっており，地道なボランティア活動に取り組む人も増えている。　＊１人の女性が生涯に生む子供の数の平均

(1) 下線部Aに関して，2000年から，介護が必要な人にホームヘルパーの派遣やデイサービスの提供などを行うために設けられた制度を何といいますか。 ……

(2) 下線部Bに関して，日本の社会保障制度は社会保険，公的扶助，社会福祉，公衆衛生と医療の４つから成り立っています。このうち，公的扶助について述べたものを，次から１つ選び，記号を書きなさい。 ……

ア　国民の健康増進をはかるために，伝染病などの感染症の予防を行ったり，廃棄物の処理や下水道の管理を行ったりする。

イ　病気などで生活が困難な人に対して，生活費などを給付する。

ウ　加入者や事業主が掛け金を積み立てておいて，必要が生じたときに給付を受ける。

エ　母子家庭や児童，身体障害者などに対して，生活の保障や援助のサービスを行って自立を支援する。

(3) 下線部Cを何といいますか。 ……

(4) 下線部Dの形成には，マスメディアが大きな役割を果たしています。マスメディアにふくまれないものを，次から１つ選び，記号を書きなさい。 ……

ア　新聞　　イ　テレビ　　ウ　ラジオ　　エ　Eメール

(5) 下線部Eに関して，右のグラフは，日本の年齢別人口構成と社会保障関係費の推移を示しています。２つのグラフから，将来の負担についてどのような問題が生じると考えられますか。次の語句を用いて，簡単に書きなさい。　〔生産年齢層　高齢者層〕

日本の年齢別人口構成

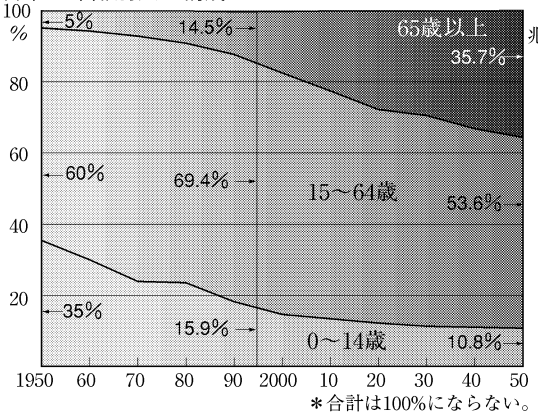

＊合計は100%にならない。

社会保障関係費の推移

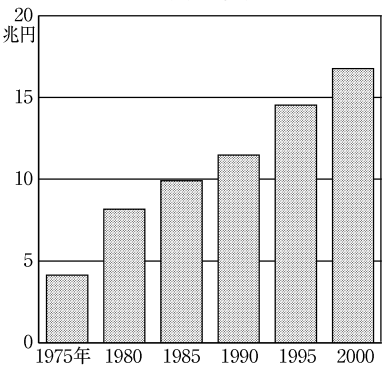

（左右とも2004/05年版「日本国勢図会」など）

……

……

(6) 下線部Fを何といいますか，カタカナで書きなさい。 ……

3 〈ＥＵとアメリカ〉 次の文を読んで，あとの問いに答えなさい。

2004年５月，A ＥＵに新たに10か国が加盟して，B 加盟国は25か国となった。新しいＥＵの人口は4.5億人となり，ＧＤＰ（国内総生産）はアメリカに近づいているが，C 難しい問題もかかえている。一方，D 大統領制をとるアメリカでは，はげしい大統領選が展開され，11月にブッシュ大統領が再選された。

ＥＵとアメリカは，イラク戦争をめぐって対立が生じた。特に，フランス・ドイツとアメリカとの溝が深まり，国際連合のE 安全保障理事会では，イラクへの武力行使につながる決議の採択をF フランスが阻止しようとした。その後，アメリカはG イラクに進攻し，短期間のうちに政権を崩壊させた。

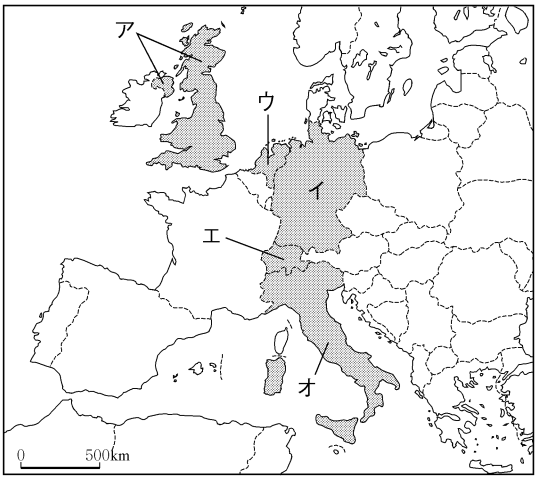

(1) 下線部Aについて述べた文として，誤っているものを次から１つ選び，記号を書きなさい。 ……

ア　本部はベルギーのブリュッセルに置かれている。

イ　教師・医師などの免許が統一されている。

ウ　共通通貨のマルクが流通している。

エ　域内での資本や労働力の移動は原則自由である。

(2) 下線部Bに関して，ＥＵの前身は1967年に６か国で発足したＥＣです。1967年の発足時のＥＣ加盟国にあてはまらないものを，右の地図中から２つ選び，記号を書きなさい。 …… ……

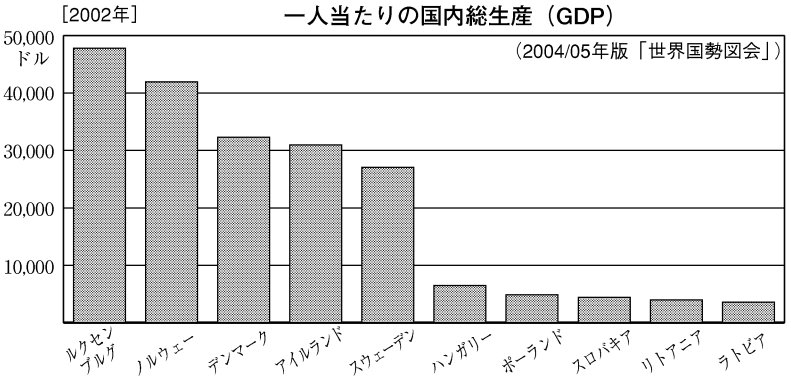

(3) 下線部Cに関して，右のグラフを参考にして，ＥＵのかかえる問題を簡単に説明しなさい。

……

……

(4) 下線部Dに対して，日本では，内閣は国会の信任にもとづいて成立し，国会に対して責任を負う制度をとっています。この制度を何といいますか。 ……

(5) 下線部Eの常任理事国にあてはまる国の正しい組み合わせを次から１つ選び，記号を書きなさい。 ……

ア　中国・ロシア　　イ　アメリカ・イスラエル

ウ　イタリア・ロシア　　エ　アメリカ・オーストラリア

(6) 下線部Fに関して，フランスが決議案を阻止することができるのは，フランスなどの常任理事国が何という権限をあたえられているからですか。漢字３字で書きなさい。 ……

(7) 下線部Gでは，古代にメソポタミア文明がおこりました。メソポタミア文明について述べたものを，次から１つ選び，記号を書きなさい。 ……

ア　漢字のもとになる甲骨文字がつくられた。

イ　国王の墓として，巨大なピラミッドがつくられた。

ウ　天文学が発達し，太陰暦がつくられた。

エ　ポリスとよばれる都市国家で民主政治が行われた。

4 **〈アジアの動き〉** 右の地図を見て，次の問いに答えなさい。

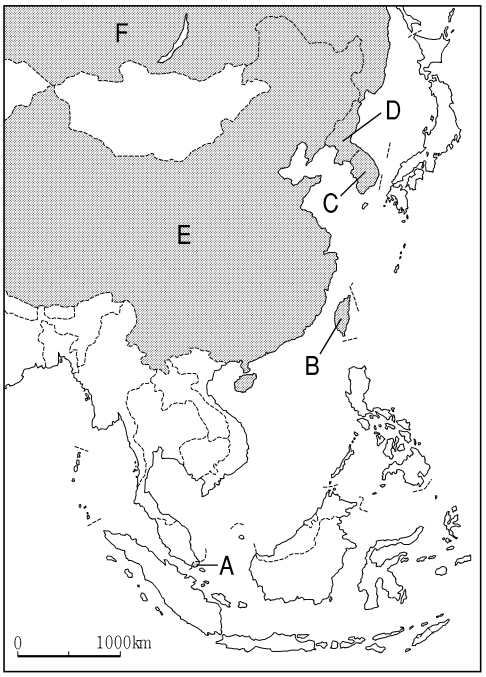

(1) 地図中のAの国と日本は，2002年に自由貿易協定（ＦＴＡ）を結びました。日本は，2004年には，メキシコとの間にも自由貿易協定を結びました。メキシコは，アメリカ・カナダとも協定を結んでいます。この協定の略称を，次から１つ選び，記号を書きなさい。

ア　ＡＰＥＣ　　イ　ＮＡＦＴＡ

ウ　ＡＳＥＡＮ　　エ　ＯＰＥＣ

(2) 地図中のＡ・Ｂ・Ｃの国や地域は，急速な工業化を達成し，電子部品など工業製品の輸出国となっています。これらの国や地域をまとめて何といいますか。

(3) 地図中のＣの国と日本との貿易について，Ｃの国からの日本の輸入品を示しているものを，次から１つ選び，記号を書きなさい。

ア

原油	1,361,626
液化石油ガス	178,155
石油製品	104,606
うち揮発油	99,425
有機化合物	32,254
プラスチック	3,199
非鉄卑金属くず	1,849
計×	1,688,655

イ

木材	139,378
肉類	107,518
機械類	75,027
なたね	62,675
石炭	52,885
魚介類	50,210
パルプ	49,760
小麦	29,161
アルミニウム	26,401
銅鉱	23,485
航空機	21,622
計×	871,095

ウ

液化天然ガス	537,794
原油	211,476
機械類	191,244
合板	95,999
魚介類	92,786
石油製品	92,030
石炭	80,530
ニッケルのマット	56,963
銅鉱	56,408
液化石油ガス	27,374
天然ゴム	26,010
計×	1,905,215

エ

機械類	935,140
うち集積回路	365,696
コンピュータ	180,788
石油製品	273,217
鉄鋼	110,505
魚介類	76,236
金属製品	60,439
プラスチック	52,908
有機化合物	48,580
衣類	39,518
野菜	27,550
計×	2,071,182

（2003年）（単位百万円）　　（2004/05年版「日本国勢図会」）

(4) 地図中のＤの国と日本との間で，国交正常化に向けた交渉が進められています。この国の首都はどこですか。その都市名を書きなさい。

(5) 地図中のＥの国では，2004年３月に全国人民代表大会（全人代）が開かれ，めざましい経済発展にともなうさまざまな問題も討議されました。この国の経済発展にともなう問題の１つを，右の図を参考にして，簡単に書きなさい。

省別工業生産額

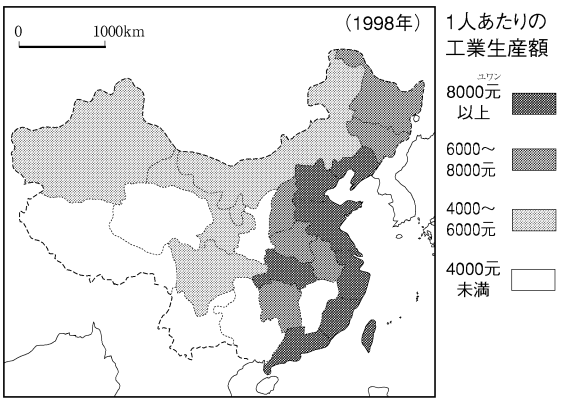

（1999年「中国統計年鑑」ほか）

(6) Ｅの国の人口の90％以上を占めている民族を何といいますか。

(7) 次の文は，地図中のＤの国をめぐる問題について述べています。文中の□にあてはまる国名を書きなさい。

> この国の核開発問題の解決をめざして，地図中のＣ・Ｄ・Ｅ・Ｆの国と日本，□の代表からなる６か国協議が進められているが，あまり成果は得られていない。